Libris.RO
Respect pentru oameni și cărți

TESTUL 1

1.



Ea este:

A) prietena lui Andrei
B) vecina lui Răzvan
C) vecina lui Andrei
D) sora lui Răzvan
E) colega lui Răzvan

2. Proverbul spune că:
„Vorba dulce, mult…“

A) oferă B) duce C) aduce D) spune

3. O vorbă înțeleaptă zice:
„Ai carte, ai…“:

A) bani B) fructe C) parte D) mașină E) alt răspuns



4. O filă de carte are.....

A) patru pagini
B) trei pagini
C) două pagini
D) o pagină
E) nici o pagină

5. *copil – copilaș*
frunză – frunzuliță
carte - …?

A) cărturar B) card C) scrisoare D) floricică E) cărticică

Libris
Respect pentru oameni și cărți

6. *„Ea dă sfaturi tuturor,*
Înțeleaptă, ajutor
Pentru toți ce vor să-i ceară.
Dă lumină tuturor.“ (Virgil Carianopol)

Versurile fac parte din poezia:

A) Becul **B)** Noaptea **C)** Cartea **D)** Toamna **E)** Furtuna

7. *„Două dulci cuvinte singure mai pot*
Să-mi aline dorul care mi-e despot,
Oriunde-n lume ele mă urmară!
*Unul este **Mamă**, altul este **Țară**!“*
(Alexandru Macedonski – „Două cuvinte“)

Cele mai scumpe cuvinte sunt:

A) diamante, bogăție **B)** patrie, munți **C)** mamă, țară
D) cuvânt, avuție **E)** aur, argint

8. Țara mea se numește ...

A) România **B)** Roma **C)** Franța
D) Anglia **E)** Europa

9. *Într-o țară așa de frumoasă, c-un trecut așa de glorios, în mijlocul unui popor atât de deștept, cum să nu fie o adevărată religie iubirea de patrie și cum să nu-ți ridici fruntea, ca falnicii strămoși de odinioară, mândru că poți spune; „Sunt român!“*
(*România pitorească* – după Alexandru Vlahuță)

Țară sau:

A) oraș **B)** sat **C)** cătun
D) patrie **E)** continent

10. Iubire de patrie sau...

A) patriot **B)** patriotism **C)** țarist
D) defăimător **E)** egoist

❑ **Umple cerculețul corespunzător răspunsului corect**

1	Ⓐ	Ⓑ	Ⓒ	Ⓓ	Ⓔ
2	Ⓐ	Ⓑ	Ⓒ	Ⓓ	Ⓔ
3	Ⓐ	Ⓑ	Ⓒ	Ⓓ	Ⓔ
4	Ⓐ	Ⓑ	Ⓒ	Ⓓ	Ⓔ
5	Ⓐ	Ⓑ	Ⓒ	Ⓓ	Ⓔ
6	Ⓐ	Ⓑ	Ⓒ	Ⓓ	Ⓔ
7	Ⓐ	Ⓑ	Ⓒ	Ⓓ	Ⓔ
8	Ⓐ	Ⓑ	Ⓒ	Ⓓ	Ⓔ
9	Ⓐ	Ⓑ	Ⓒ	Ⓓ	Ⓔ
10	Ⓐ	Ⓑ	Ⓒ	Ⓓ	Ⓔ

Libris
Respect pentru oameni și cărți

TESTUL 2

1. Iubitor de patrie sau…

A) patriotism B) patrie C) patriot D) duşman E) indiferent

2. Popor sau…

A) limbă B) țară C) continent D) norod E) grup

3. Strămoşi sau ….

A) bunici B) buni C) străbuni D) nepoți E) copii

4. „Deşteaptă-te, române!“ de Andrei Mureşanu este .....

A) Imnul şcolii B) Imnul României C) Imnul Europei
D) Imnul unui partid E) Imnul micilor cântăreți

5. *„Toamnă! Pădurea fumegă. Negurile se lasă perdeluind zările. Paserile se rotesc în înalt, se deșiră, iar se strâng și iar se răresc apoi își aleg călăuzele, le pun în frunte, și-n vârf de săgeată călătoresc.“* („Nedespărțite“ – Emil Gârleanu)

Călăuză sau…

A) conduce B) îndrumă C) ghidează D) călăuzeşte E) ghid

6. *„În nopțile reci de toamnă văzduhul parcă freamătă”*

(„Nedespărțite“ – Emil Gârleanu)

Freamătă sau…

A) freamătă B) foşneşte C) vibrație D) zvâcnire E) pulsație

Libris.ro
Respect pentru oameni și cărți

7. *„Se ridică stolul sus-sus, pe apa albastră a cerului și, lin, ca împinse de un dor tainic, vâslesc, se șterg, din zarea plaiurilor noastre. Se duc!*

(„Nedespărțite“ – Emil Gârleanu)

Tainic sau…

A) ascuns B) ascunde C) camuflează D) egal E) maschează

8. Cea mai mică parte a unui cuvânt rostit este....

A) litera B) grupul de litere C) semnul grafic
D) țipătul E) sunetul

9. Semnul scris al sunetului este.....

A) imaginea lui B) un desen oarecare
C) un cuvânt D) litera
E) propoziția

10. Poate forma singură o silabă.....

A) o propoziție B) o consoană
C) o vocală D) o imagine
E) o vioară

11. Consoanele pot forma silabe numai împreună cu.....

A) consoanele B) vocalele
C) cuvântul D) cifrele
E) semnele de punctuație



❑ Umple cerculețul corespunzător răspunsului corect

1	A	B	C	D	E
2	A	B	C	D	E
3	A	B	C	D	E
4	A	B	C	D	E
5	A	B	C	D	E
6	A	B	C	D	E
7	A	B	C	D	E
8	A	B	C	D	E
9	A	B	C	D	E
10	A	B	C	D	E
11	A	B	C	D	E

Libris.ro
Respect pentru oameni și cărți

TESTUL 1



***1. Cel mai mic număr natural este:**

A) 100 B) 1000 C) 10 D) 1 E) 0

***2. Pentru a scrie numere naturale mă pot folosi de cifre, în număr de:**

A) 1000 B) 9 C) 1 D) 10 E) 20

***3. Împreună, numerele 9, 99, 999 au:**

A) 3 cifre B) 4 cifre C) 5 cifre D) 6 cifre E) 7 cifre

***4. Numărul 464 are:**

A) 8 cifre identice B) 6 cifre identice C) 4 cifre identice
D) 3 cifre identice E) 2 cifre identice

***5. Împreună, numerele 465; 12; 347 au:**

A) 8 cifre distincte B) 7 cifre distincte C) 6 cifre distincte
D) 3 cifre distincte E) 2 cifre distincte

***6.** 15 520 78 364

Mulțimea de numere naturale conține:

A) 4 numere şi 10 cifre B) 10 numere şi 4 cifre
C) 10 numere şi 10 cifre D) 4 numere şi 9 cifre

Libris.ro
Respect pentru oameni și cărți

***7. Suma cifrelor numărului 999 este:**

A) 3 B) 18 C) 27 D) 0 E) alt număr

***8. Numărul scris cu cifre identice este:**



A) 647 B) 20 C) 23 D) 418 E) 333

***9.**

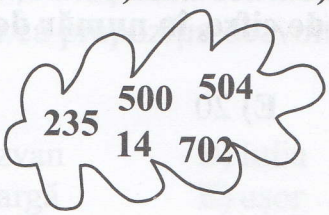



Numărul care are suma cifrelor egală cu 10 este:

A) 14 B) 235 C) 500
D) 504 E) 702

***10. Cel mai mic număr scris cu două cifre este:**

A) 0 B) 10 C) 11
D) 20 E) 99

***11. Cel mai mare număr scris cu două cifre este:**

A) 900 B) 999 C) 99
D) 10 E) 9

***12. Cel mai mic număr scris cu două cifre distincte este:**

A) 1 B) 21 C) 12
D) 11 E) 10

❑ Umple cerculețul corespunzător răspunsului corect

	A	B	C	D	E
1	○	○	○	○	○
2	○	○	○	○	○
3	○	○	○	○	○
4	○	○	○	○	○
5	○	○	○	○	○
6	○	○	○	○	○
7	○	○	○	○	○
8	○	○	○	○	○
9	○	○	○	○	○
10	○	○	○	○	○
11	○	○	○	○	○
12	○	○	○	○	○

Libris.ro
Respect pentru oameni și cărți

TESTUL 2

✻1. Cel mai mic număr natural scris cu două cifre identice este:

A) 10 B) 11 C) 22 D) 99 E) 99

✻2. Din mulțimea de numere, cele 5 numere pare sunt:

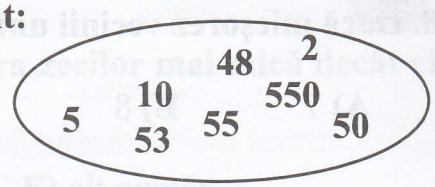

A) 5; 50; 55; 53; 555 B) 5, 10, 50, 44, 48
C) 53, 55, 44, 48, 2 D) 2, 10, 50, 44, 5
E) 2, 10, 50, 48, 550

✻3. Numărul impar mai mare decât 787 este:



A) 792 B) 793 C) 790
D) 499 E) 337

✻4. 440, 441, 442, 443, ...;
Urmează:

A) număr impar B) număr par cu cifre distincte
C) număr par cu cifre identice D) cel mai mare număr de trei cifre
E) predecesorul numărului 443.

✻5. Care număr natural de două cifre are suma vecinilor egală cu 30:

A) 10 B) 12 C) 13 D) 14 E) 15

✻6. Din mulțimea de numere, două se pot scrie ca sumă de două numere identice.
Ele sunt:

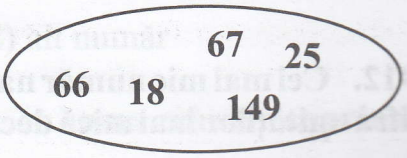

A) 66; 149 B) 25; 149 C) 25; 18 D) 18; 66 E) 66; 67

Libris.ro
Respect pentru oameni și cărți

***7. Care dintre numerele de la 1 la 10 se pot scrie ca sumă de două numere consecutive?**

A) numerele impare
B) numerele pare
C) toate numerele
D) numerele mai mari ca 1
E) numerele mai mici ca 10

***8. Dacă micşorez vecinii unui număr cu 5, obțin numerele 5 şi 7. Numărul este:**

A) 7 B) 8 C) 9 D) 10 E) 11

***9. Cel mai mare număr natural de două cifre, cu cifra zecilor mai mică decât cifra unităților este:**

A) 99 B) 89 C) 87 D) 86 E) alt număr

***10. Cel mai mare număr natural de două cifre, cu cifra unităților mai mică decât cifra zecilor este:**



A) 99 B) 98 C) 97
D) 96 E) alt număr

***11. Cel mai mic natural număr de două cifre, cu cifra zecilor mai mică decât cifra unităților este:**

A) 10 B) 11 C) 12
D) 13 E) alt număr

***12. Cel mai mic număr natural de două cifre cu cifra unităților mai mică decât cifra zecilor este:**

A) 21 B) 12 C) 10
D) 98 E) alt număr

❑ Umple cerculețul corespunzător răspunsului corect

	A	B	C	D	E
1	○	○	○	○	○
2	○	○	○	○	○
3	○	○	○	○	○
4	○	○	○	○	○
5	○	○	○	○	○
6	○	○	○	○	○
7	○	○	○	○	○
8	○	○	○	○	○
9	○	○	○	○	○
10	○	○	○	○	○
11	○	○	○	○	○
12	○	○	○	○	○